Централизованное тестирование по географии, 2017

При выполнении заданий с кратким ответом впишите в поле для ответа цифру, которая соответствует номеру правильного ответа, или число, слово, последовательность букв (слов) или цифр. Ответ следует записывать без пробелов и каких-либо дополнительных символов.

В заданиях, где нужно установить соответствие между двумя столбцами, ответ запишите в виде сочетания букв и цифр, соблюдая алфавитную последовательность букв левого столбца. Некоторые данные правого столбца могут использоваться несколько раз или не использоваться вообще. Например: А1Б1В4Г2.

Если вариант задан учителем, вы можете вписать или загрузить в систему ответы к заданиям с развернутым ответом. Учитель увидит результаты выполнения заданий с кратким ответом и сможет оценить загруженные ответы к заданиям с развернутым ответом. Выставленные учителем баллы отобразятся в вашей статистике.

1.
Точка на карте расположена:

1) в Западном полушарии;
2) в Южном полушарии;
3) к югу от Южного тропика;
4) к северу от Северного тропика.

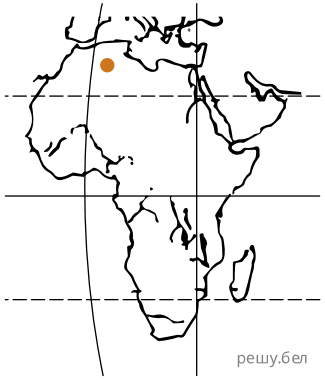

Карта составлена по состоянию на 01.01.2017

2. Для участка местности, показанного на фрагменте топографической карты, ВЕРНОЙ является характеристика:

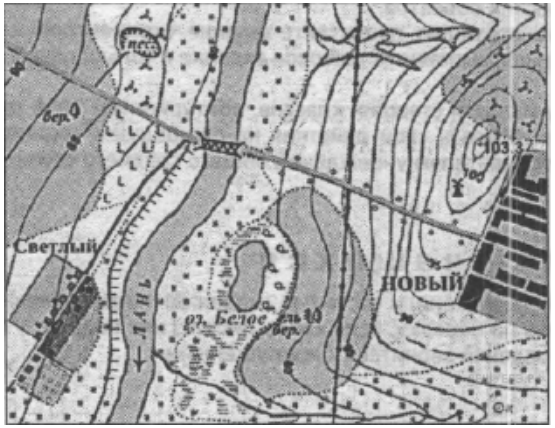

1) отсутствуют заболоченные участки;
2) вдоль восточного берега озера Белого распространены сплошные заросли кустарников;
3) песчаный карьер расположен на восток от реки Лани;
4) от города Новый на северо-запад ведет шоссе.

3. На рисунке стрелкой указана форма рельефа:

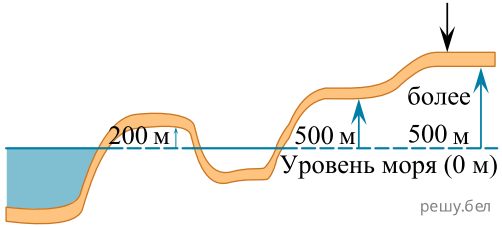

1) возвышенность; 2) плоскогорье; 3) низменность; 4) впадина.

4. Роза ветров (см. рис.) отражает преобладание ветров:

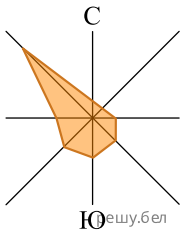

1) восточных; 2) северо-западных; 3) юго-восточных; 4) юго-западных.

5. На рисунке буквой Б отмечена(-ен; -ы):



1) пойма; 2) водораздел; 3) речной бассейн; 4) надпойменные террасы.

6. Из перечисленных географических терминов к литосфере относится:

1) рифт; 2) циклон; 3) кампос; 4) вади.

7. Для населения мира характерна(-ен; о):

1) наибольшая доля представителей негроидной расы в структуре населения Южной Америки;
2) естественная убыль населения в некоторых странах Восточной Европы;
3) один из самых низких темпов роста городского населения в Азии;
4) отсутствие стран со сложным этническим составом в Африке.

8.
На карте цветом выделены три государства, которые являются:

1) унитарными по форме политико-территориального устройства;
2) федеративными по форме политико-территориального устройства;
3) везущими странами по объемам производства стали;
4) мировыми лидерами по объемам валового сбора кукурузы.

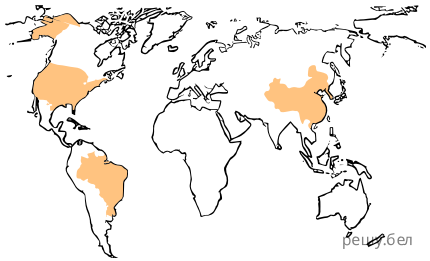

Карта составлена по состоянию на 01.01.2017

9. В состав интеграционного объединения МЕРКОСУР входит:

1) Мексика; 2) Венесуэла; 3) Германия; 4) Австралийский Союз.

10. В характеристике мирового хозяйства ВЕРНЫМ является утверждение:

1) преимущественно для развитых стран характерна специализация на экспорте продукции добывающей промышленности;

2) среди стран мира наибольшее количество транснациональных компаний размещено в Германии;
3) крупнейшим интеграционным объединением мира (по количеству стран) является Европейский Союз;
4) первое место в мире по торговле услугами среди регионов принадлежит Северной Америке.

11. В характеристике сельского хозяйства мира ВЕРНЫМ является утверждение:

1) в сельском хозяйстве развитых стран занята большая часть населения;
2) среди зерновых культур по валовым сборам лидирует кукуруза;
3) Япония входит в тройку мировых лидеров по валовым сборам риса;
4) среди регионов мира по поголовью свиней лидирует Америка.

12. В характеристике промышленности мира ВЕРНЫМ является утверждение:

1) доля ГЭС в структуре производства электроэнергии превышает долю АЭС;
2) в региональной структуре производства чугуна наибольшая доля принадлежит Европе;
3) в общем объеме производства минеральных удобрений преобладают фосфорные удобрения;
4) среди натуральных тканей ведущее место по объемам производства принадлежит шерстяным тканям.

13. В характеристике мировой сферы услуг ВЕРНЫМ является утверждение:

1) в структуре мирового валового продукта наибольшая доля принадлежит сфере услуг;
2) в структуре пассажирооборота ведущее место принадлежит воздушному транспорту;
3) в структуре грузооборота ведущее место принадлежит железнодорожному транспорту;
4) по количеству туристских прибытий среди регионов лидирует Азия.

14. В Африке обитает:



1) 1 2) 2 3) 3 4) 4

15. ОБЩЕЙ чертой для социально-экономического развития Египта и ЮАР являются(-ется):

1) одинаково высокие показатели естественного прироста населения;
2) преобладание крупных городов с численностью населения более 10 млн чел.;
3) наличие запасов топливных ресурсов;
4) возделывание хлопчатника как важнейшей сельскохозяйственной культуры.

16. Для Австралии характерно(-а):

1) расположение Большого Водораздельного хребта вдоль западного побережья;
2) наличие области тропического влажного климата на севере материка;
3) наибольшая площадь бассейна рек Тихого океана;
4) распространение акаций и эвкалиптов в природной золе саванн и редколесий.

17. В характеристике социально-экономического развития Австралийского Союза ВЕРНЫМ является утверждение:

1) соотношение численности городского и сельского населения примерно одинаковое;
2) страна является мировым лидером по добыче нефти;
3) наибольшая доля посевных площадей используется для возделывания пшеницы;
4) отсутствуют трансконтинентальные магистрали.

18. Для Антарктиды характерно(-а):

1) расположение молодых гор по восточному краю платформы;
2) отсутствие в подледном рельефе отметок а эсолютных высот ниже уровня моря;
3) выпадение наименьшего годового количества осадков в центральной части материка;
4) наибольшая среди озер планеты площадь подледного озера Восток.

19.

Определите ВЕРНОЕ утверждение относительно природной зоны Южной Америки, отмеченной на карте цветом:

1) на большей части территории выпадает до 400 мм осадков в год;
2) формируются подзолистые почвы;
3) распространены деревья с ценной древесиной: палисандровое, пау бразил, махагони;
4) обитают красная носуха, капибара, страус нанду.

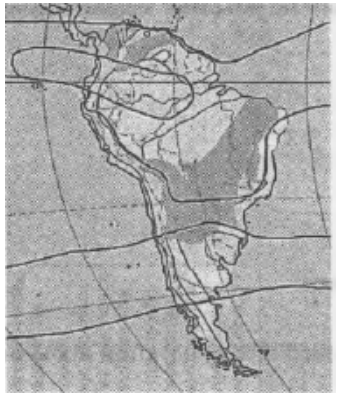

Карта составлена по состоянию на 01.01.2017

20. Для социально-экономического развития Бразилии в ОТЛИЧИЕ от Аргентины характерен(-на; -но):

1) однородный этнический состав населения;
2) наибольшая доля сельского населения в структуре населения;
3) наличие запасов урановых руд;
4) вхождение в тройку мировых лидеров по поголовью крупного рогатого скота.

21. В Северной Америке:

1) на полуострове Лабрадор отсутствуют ледниковые формы рельефа;
2) руды цветных металлов распространены на Примексиканской низменности;
3) зарегистрирована максимальная температура воздуха для Западного полушария;
4) типичным представителем прерий является овцебык.

22. Для социально-экономического развития США в ОТЛИЧИЕ от Мексики характерны(-а; -о):

1) более низкие темпы естественного прироста населения;
2) унитарная форма административно-территориального устройства;
3) производство большей части электроэнергии в стране на ГЭС;
4) ведущая роль растениеводства в структуре сельского хозяйства.

23. ВЕРНЫМ в характеристике природы Евразии является утверждение:

1) горы Алтай расположены в пределах молодого складчатого пояса;
2) ледниковые формы рельефа отсутствуют г Западной Сибири;
3) в субтропическом климатическом поясе летом господствуют умеренные воздушные массы;
4) на Японских островах распространены вулканические озера.

24. В азиатской части Евразии расположены(-а; -ен):

1) горы Сихотэ-Алинь; 2) Приднепровская низменность; 3) горы Шварцвальд;
4) вулкан Везувий.

25. В характеристике социально-экономического развития стран Северной Европы ВЕРНЫМ является утверждение:

1) среди стран региона наибольшей численностью населения выделяется Финляндия;
2) население равномерно размещено по территории региона;
3) развитие черной металлургии в Швеции базируется на добыче местных железных руд;
4) большую часть товарной продукции сельского хозяйства обеспечивает растениеводство.

26. Для социально-экономического развития Польши характерен(-но; -на):

1) низкий удельный вес населения, занятого в сельском хозяйстве, в сравнении со странами Западной Европы;
2) развитие преимущественно неметаллоемкого машиностроения;
3) ведущая роль зернового хозяйства в структуре растениеводства;
4) низкая доля электрифицированных железных дорог.

27. В характеристике Японии ВЕРНЫМ является утверждение:

1) этнический состав населения сложный; 2) размещение населения равномерное;
3) в структуре обрабатывающей промышленности машиностроению принадлежит ведущая роль;
4) сельское хозяйство полностью обеспечивает потребности страны в овощах и фруктах.

28. В характеристике природы России ВЕРНЫМ является утверждение:

1) Уральские горы расположены в молодом складчатом поясе;
2) равнины занимают меньшую часть территории стран ы;
3) на севере европейской части России снежный покров держится более полугода;
4) наибольшую территорию занимает бассейн внутреннего стока.

29. Для социально-экономического развития России характерно(-а, -ы):

1) преобладание численности мужчин в структуре населения;
2) наибольшая доля угля в топливно-энергетическом балансе страны;
3) наибольшие в мире объемы добычи железной руды;
4) ведущая роль животноводства в структуре сельского хозяйства.

30. Административная область Беларуси, граничащая с Украиной:

1) Могилевская; 2) Минская; 3) Брестская; 4) Гродненская.

31. ВЕРНОЙ относительно Беларуси является следующая характеристика:

1) в пределах Припятского прогиба платформенный чехол имеет наименьшую мощность;
2) месторождения строительного камня приурочены к четвертичным отложениям;
3) самая низкая точка рельефа расположена в пределах Неманской низменности;
4) водно-ледниковые равнины распространены преимущественно на севере страны.

32. Для климата Беларуси характерно(-а):

1) преобладание зимой рассеянной солнечной радиации;
2) отсутствие воздействия тропических воздушных масс;
3) выпадение наибольшего годового количества осадков на низменностях южных районов;
4) наибольшая продолжительность вегетационного периода на северо-востоке страны.

33.
На карте внутри круга расположено:

1) озеро Освейское;
2) озеро Нарочь;
3) Любанское водохранилище;
4) Осиповичское водохранилище.

Карта составлена по состоянию на 01.01.2017

34. В характеристике растительного мира Беларуси ВЕРНЫМ является утверждение:

1) болотная растительность занимает наибольшую площадь среди основных типов растительности;
2) самая распространенная порода в лесах страны — береза;
3) пойменные луга наиболее широко представлены на Полесье;
4) низинные болота чаще всего образуются на водоразделах.

35. В характеристике населения Беларуси ВЕРНЫМ является утверждение:

1) поляки — вторая по численности этническая группа населения;
2) увеличивается удельный вес пожилых и престарелых людей в возрастной структуре;
3) в структуре населения наибольшая доля принадлежит сельскому населению;
4) наибольшая средняя плотность населения отмечается в Витебской области.

36. Для промышленности Беларуси характерно(-а):

1) отсутствие электростанций, использующих энергию ветра;
2) использование природной сырьевой базы для развитая цветной металлургии;
3) специализация машиностроения на производстве вагонов метрополитена;
4) зависимость производства фосфорных удобрений от импорта сырья.

37. Для сельского хозяйства Беларуси характерна(-о):

1) наибольшая доля технических культур в структуре посевных площадей;
2) наибольшая концентрация посевов льна-долгунца в Гомельской области;
3) наличие птицефабрик промышленного типа во всех областях страны;
4) специализация рыбных хозяйств исключительно на разведении карпа.

38. В характеристике транспорта Беларуси ВЕРНЫМ является угверждение:

1) самым крупным по пассажиро- и грузообороту является Гомельский железнодорожный узел;
2) среди автомобильных дорог по протяженности преобладают международные автодороги;
3) в общей сети магистральных трубопроводов наибольшая часть приходится на нефтепроводы;
4) большая часть перевозимых речным транспортом грузов приходится на Припять и Днепровско-Бугский канал.

39.

Назовите реку, речная система которой выделена на карте.

В ответ запишите название реки. Например: Днепр.

Карта составлена по состоянию на 01.01.2017

40. Расположите последовательно с севера на юг следующие географические объекты:

1) полуостров Юкатан;
2) горы Саяны;
3) озеро Танганьика;
4) пустыня Намиб.

Ответ запишите цифрами, соблюдая полученную последовательность. Например: 2143.

41. Установите соответствие между характеристиками климатических поясов Южной Америки и их местоположением,
отмеченным на карте цифрами:

А) зарегистрирован абсолютный максимум температуры воздуха на материке;
Б) на западном побережье формируется морской климат с влажным прохладным летом и относительно теплой зимой;
В) в течение года господствуют экваториальные воздушные массы;
Г) отмечается сезонность распределения осадков, влажное лето и сухая зима, высокие температуры воздуха в течение года.

Карта составлена по состоянию на 01.01.2017

Ответ запишите в виде сочетания букв и цифр, соблюдая алфавитную последовательность букв. Например: А2Б1В4Г3.

42. Одно из проявлений деградации земель — это процесс исчезновения лесов, являющийся результатом деятельности человека и естественных причин, которые приводит к уменьшению биологического разнообразия. Это процесс ... .

Запишите ответ словом в той форме, в которой оно должно быть употреблено в предложении.

43. Государство расположено на стыке двух материков и имеет выход к морю. Преобладающая часть территории страны занята пустынями. Большая часть населения сконцентрирована в долине крупной реки. В промышленности большую роль играет добыча нефти и природного газа, а производимый хлопок, в основном длинноволокнистых сортов, является предметом экспорта. Столица данного государства — ... .

В бланк ответов запишите столицу государства Например: Минск.

44. Установите соответствие.

Национальный парк	Материк
А) Косцюшко	1) Африка
Б) Сан-Жуакин	2) Евразия
В) Серенгети	3) Австралия
Г) Гранд-Каньон (Большой Каньон Колорадо)	4) Южная Америка
	5) Северная Америка

Ответ запишите в виде сочетания букв и цифр, соблюдая алфавитную последовательность букв левого столбца. Помните, что не все данные правого столбца могут быть при этом использованы. Например: А2Б1В4Г5.

45. Установите соответствие между характеристиками и расположением государств, отмеченных на карте цифрами:

А) федеративная республика, одна из ведущих стран по объемам производства первичного алюминия;

Б) монархия, одна из ведущих стран по количеству туристских прибытий;

В) федеративная республика, одна из ведущих стран — производителей фосфорных удобрений;

Г) федеративная республика, одна из стран-лидеров по поголовью свиней.

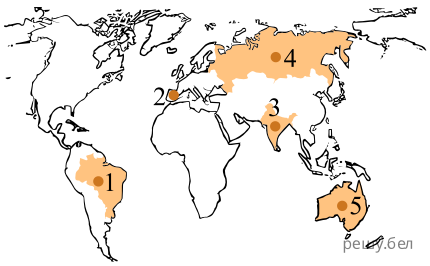

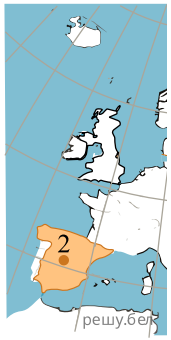

Карта составлена по состоянию на 01.01.2017

Ответ запишите в виде сочетания букв и цифр, соблюдая алфавитную последовательность букв. Помните, что не все данные, отмеченные на карте, могут быть использованы для ответа. Например: А2Б1В4Г5.

46. Почвообразующий процесс на территории Беларуси, который протекает в условиях длительного застоя влаги и недостатка кислорода, - это... почвообразующий процесс.

Дополните предложение и запишите ответ в виде слова.

47. Установите соответствие:

Характеристика физико-географической провинции

А) разрабатывается Рубовское месторождение доломитов, месторождения торфа и сапропелей

Б) расположен радиационно-экологический заповедник

В) расположены Солигорское и Любанское водохранилища

Г) расположен мемориальный Купаловский заповедник «Вязынка»

Провинция

Карта составлена по состоянию на 01.01.2017

Ответ запишите в виде сочетания букв и цифр, соблюдая алфавитную последовательность букв левого столбца. Помните, что не все данные, отмеченные на карте, могут быть использованы для ответа. Например: А2Б1В4Г5.

48. Установите соответствие:

Характеристика области

А) на предприятиях области производятся лифты, шины, деревообрабатывающие станки
Б) в городе, расположенном на реке Щаре, размещается предприятие по производству шерстяной и полушерстяной пряжи
В) расположен Белорусский автомобильный завод, который выпускает автомобили особо высокой грузоподъемное
Г) в районном центре, расположенном на реке Березине, работает целлюлозно-картонный комбинат

Область

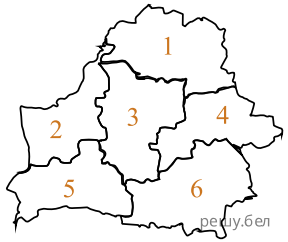

Карта составлена по состоянию на 01.01.2017

Ответ запишите в виде сочетания букв и цифр, соблюдая алфавитную последовательность букв левого столбца. Помните, что не все данные правого столбца могут быть при этом использованы. Например: А2Б1В4Г5.

49. По данным среднемесячных температур вычислите годовую амплитуду температуры воздуха.

Месяц	I	II	III	IV	V	VI	VII	VIII	IX	X	XI	XII
t, °C	−5	−4	0	+1	+9	+14	+18	+15	+10	+4	−1	−6

Ответ запишите цифрами в виде целого числа. Единицы измерения не указывайте. Например: 17.

50. Морское судно преодолело путь между пунктами с географическими координатами 4° с. ш. 50° в. д. и 6°ю. ш. 50° в. д., двигаясь строго на юг вдоль меридиана. Чему раве н (в сантиметрах) отрезок данного пути на карте масштаба 1 : 22 000 000?
Ответ округлите до целого числа и запишите цифрами. Единицы измерения не указывайте. Например: 17.